वजनाचे कोडे

मातीचा एक
गोळा घ्या.

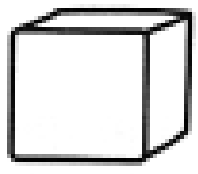





त्यातून सारख्या वजनाचे आणि
सारख्या आकाराचे मातीचे चार गोळे बनवा.

मग चारही गोळ्यांचे वेगवेगळे आकार तयार करा–
एक प्राणी, एक ठोकळा, एक कप आणि एक बशी.

तुमच्या मित्रांना विचारा, की यातला कोणता आकार अधिक जड असेल?
प्रत्येक आकार एकसारख्या वजनाच्या गोळ्यापासून बनला असल्याने
त्याच्या वजनात फरक कसा असेल?

पाय (Pi) ची किंमत लक्षात ठेवण्यासाठी

तुम्हाला जर पायची किंमत लक्षात ठेवायची असेल, तर पुढे दिलेल्या इंग्रजी वाक्यातील
प्रत्येक शब्दात किती अक्षरे आहेत ते मोजा.

तर तुम्हाला दोन अधिकची दशांश स्थळे मिळतील. (3.141592653...)